6б-ауд.105-15

Работа на школьном этапе ВсОШ
по географии
ученика 6б
средней школы №20
города Невинномысска
Никитченко Андрей Сергеевич
учитель: Свечкарёв Николай Николаевич
аудитория 105

Председатель Жерова Г.П.
Члены комис. Свечкарев Н.Н.
Иваненко С.Н.
Воробьев Д.А.

2018-2019

Г-105-6-15

ВСЕРОССИЙСКАЯ ОЛИМПИАДА ШКОЛЬНИКОВ ПО ГЕОГРАФИИ

ШКОЛЬНЫЙ ЭТАП

5-6 класс

Инструкция по выполнению работы

Внимательно прочитайте каждое задание и предлагаемые варианты ответа. Отвечайте только после того, как вы поняли вопрос и проанализировали все варианты ответа.

Советуем выполнять задания в том порядке, в котором они даны. Если какое-то задание вызывает у вас затруднение, пропустите его и постарайтесь выполнить те, в ответах на которые вы уверены. К пропущенным заданиям вы сможете вернуться, если у вас останется время.

Баллы, полученные вами за все задания, суммируются. Постарайтесь выполнить как можно больше заданий и набрать как можно большее количество баллов.

Желаем успеха!

Задание 1

Какова относительная высота подводного вулкана Ваилулу'у (Тихий океан), если известно, что его подножие расположено на глубине 4200 м, а вершина — на глубине 592

Максимальный балл -10.

10 3608 метров – относительная высота вулкана

Задание 2

Определите точку, через которую проходил беспосадочный перелет севетских летчиков В.П.Чкалова, Г.Ф. Байдукова и А.В. Белякова по маршруту Москва (Россия) –Портленд (США).

Самолет все время шёл на север, перевалив точку_____ самолет шёл прежним курсом, но уже по направлению на юг. Точные часы- морской хронометр, секстант, таблицы и сложные вычисления дали все данные для перестановки указателя курса. «Все в порядке, мы летим на юг!»

10 Северный полюс

Максимальный балл -10.

Задание 3

Марокканский купец Абу Абдаллах Ибн Батутта, путешествуя с 1325 по 1349 год, прошел путь, равный трем земным экваторам. Рассчитайте примерное расстояние (в километрах), которое он проходил в среднем за один год.

Длина экватора = 40 075696 метров

Максимальный балл -10.

10 5009 км

Задание 4

Дополните недостающую информацию, отвечая на вопросы. Ответ запишите под каждой цифрой.

Например. 1 – Солнце, 2 - ….

Материк	Форма рельефа	Река	Озеро	Представитель органического мира
Евразия 4	Гималаи	Волга 7	1. Озеро с самым большим запасом пресной воды	2. «бамбуковый медведь»

Тестовый раунд

Выберите правильный ответ

1. Что показано зеленым цветом на географической карте?

А. Растительность
Б. Низкие равнины
0 В. Болота
Г. Места, где живут люди

2. Кто открыл морской путь из Европы в Индию?

А. Афанасий Никитин
Б. Васко да Гама
0 В. Христофор Колумб
Г. Марко Поло

3. Землетрясения и извержения вулканов чаще всего происходят

А. в южных районах Земли
Б. в центрах плит земной коры
1 В. на границах плит земной коры
Г. на побережье океана

4. Как представляли себе Землю древние индийцы?

А. В виде горы
0 Б. В виде половины шара, опирающегося на слонов
В. В виде диска, плавающего в океане
Г. В виде шара

5. Кто первым указал на зависимость между географической широтой и длиной дня и ночи?

А. Эратосфен
Б. Пифей
0 В. Геродот
Г. Аристотель

6. За какой промежуток времени Земля совершает полный оборот вокруг Солнца?

А. 365 суток
1 Б. 360 суток
В. За 24 часа

7. Какой признак отличает нашу планету от других «планет земной группы»?

А. Имеет твёрдую поверхность
Б. Имеет атмосферу
0 В. Имеет естественный спутник
1 Г. Присутствует вода в жидком, твёрдом и газообразном виде

8. Как называются твердые осадки, которые выпадают в теплое время года? град.

2 **9. Как называется прибор, который помогает ориентироваться на местности?** компас

10. Укажите, в какой последовательности норманны заселяли побережья островов Атлантического океана.

2 А) Гренландия
1 Б) Исландия
3 В) Ньюфаундленд

2 **11. Как называется океан, название которого происходит от известного в Древней Греции мифа о титане, держащем на своих плечах небесный свод?** атлантический

12. Назовите, на каких материках обитают перечисленные в каждой строчке животные. Укажите животное, которое попало в каждый список ошибочно.

А. Лев, жираф, зебра, горилла, тигр
Б. Утконос, кенгуру, коала, слон, ехидна
0 В. Лама, анаконда, шимпанзе, ленивец, пиранья
Г. Бизон, гепард, гризли, скунс, гремучая змея
Д. Панда, тигр, пантера, мангуст, лемур

13. Укажите верную закономерность. Чем дальше от экватора, тем:

А) больше нагревается поверхность Земли

Африка 4	Килиманджаро	3. самая длинная река в мире	Виктория 1	баобаб 5
4. Северный Материк	Кордильеры 6	Маккензи 9	Великие озера (Мичиган, Гурон, Онтарио, Эри, Верхнее)	5. самое крупное (высокое) дерево на планете
Южная Америка 8	6. горы, вытянутые вдоль западного побережья материка	7. Самая полноводная река в мире	Титикака	анаконда
8. самый маленький материк на Земле	Большой водораздельный хребет	Муррей	Эйр	9. Сумчатое животное, изображенное на гербе страны

Каждый правильный ответ 1 б, и 1 балл добавить за все правильные ответы.
Максимальный балл -10.

Задание 5

Этот вопрос мы задавали вашим папам и мамам на такой же олимпиаде 20 лет назад. А вы сможете на него ответить?

Составьте пары правильных ответов «прибор – единица измерения, которой характеризуется измеряемая прибором величина»:

- барометр, гигрометр, осадкомер, сейсмограф, флюгер, эхолот
- балл, метр, миллиметр, миллиметр ртутного столба, процент. Опишите оставшийся без пары прибор. Что он показывает?

Максимальный балл -10.

барометр – балл +
осадкомер – миллиметр, +
эхолот – процент,
гигрометр – метр,
сейсмограф – миллиметр ртутного столба.
флюгер показывает направление ветра +

2б

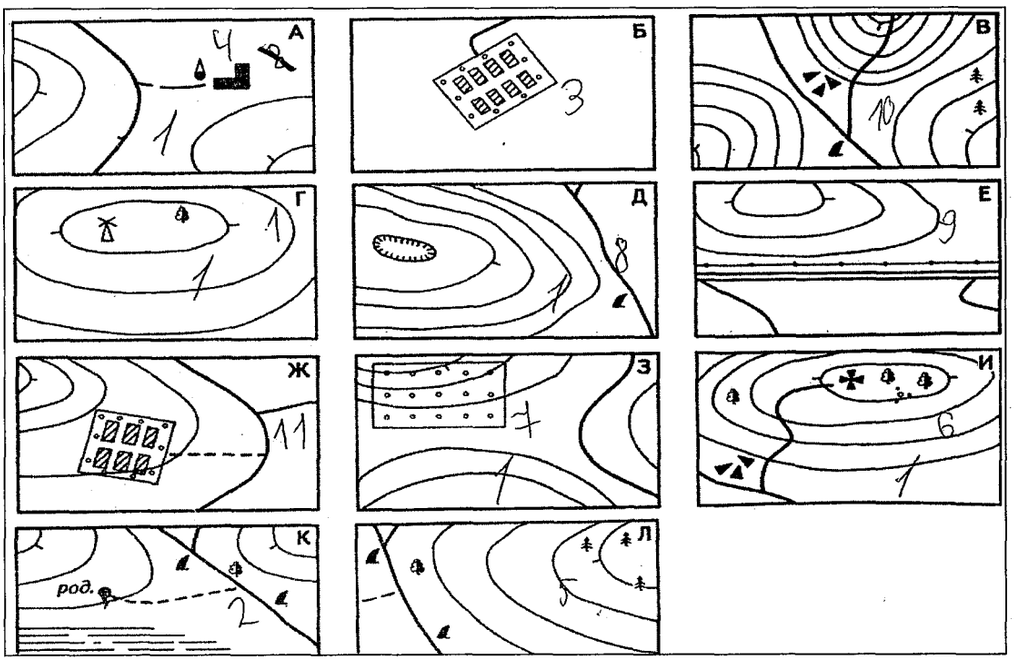

За каждый правильный ответ 1 балл. Максимальный балл - 10

Задание 3 Определить в каких странах находятся перечисленные ниже объекты Всемирного культурного наследия ЮНЕСКО.

1. Это самый загадочный исторический памятник. Возможно, что это древняя обсерватория, VI - II тысячелетия до н. э. В наши дни не раз высказывалась мысль, что к этим камням приложили руку инопланетяне, некогда создавшие здесь взлетно - посадочную площадку для своих земных экспедиций. Координаты этого объекта 51° с.ш. и 2° з.д. Как называется этот объект и на территории какой страны он находится?

_____

2. Знаменитая "падающая" башня - это колокольня собора, часть редкостного по своей красоте архитектурного ансамбля. Начало её строительства относится к 1173 г. Координаты объекта 44°с.ш. и 11° в.д. Как называется этот объект и на территории какой страны она находится?

_____

3. Таинственное заброшенное селение, о существовании которого долгое время никто не знал. Сейчас оно называется Мачу - Пикчу, еще его иногда называют «город среди облаков», построен на высоте 2450 метров над уровнем моря. Координаты памятника истории 14°ю.ш. и 73°з.д., в какой стране находится объект?

_____

4. Боробудур ("Много Будд") - самое большое буддийское святилище в виде символа, объединяющего Небо и Землю. Объект имеет координаты 8° ю.ш. и 109°в.д. На каком острове расположен этот объект мирового наследия и в какой стране?

_____

5. Храмы Христа Спасителя, Девы Марии, церковь Креста (14°' с.ш. 39° в.д.) высечены в скалах по велению царя Лалибэлы. На протяжении столетий это место было древнейшим религиозным центром паломничества для христиан всего мира. На территории какой африканской страны они находятся?

_____

6. Один из древнейших историко-культурных памятников - это Долина статуй, координаты объекта 2°с.ш. и 76°з.д. На сегодняшний день здесь найдено свыше 500 гигантских изваяний людей, богов и животных. Вытесанные из камня фигуры выглядят мрачно и отрешенно, они словно последние часовые исчезнувшей культуры, о которой сегодня почти ничего неизвестно. В какой стране находится Долина статуй?

_____

Б) сильнее ветер
1 В) меньше угол падения солнечных лучей
Г) больше нагревается воздух

14. Марко Поло совершил путешествие

А. в Персию
Б. в Африку
В. в Россию
0 Г. в Китай

15. **Кто был автором первого из сохранившихся глобусов?**

А. Мартин Бехайм
Б. Клавдий Птолемей
0 В. Пифагор
Г. Эратосфен

16. **Участники русской военно-морской экспедиции под руководством Ф.Ф. Беллинсгаузена и М.П. Лазарева совершили**

А) первое русское кругосветное плавание
1 Б) открытие Антарктиды
В) открытие Северного морского пути

За каждый правильный ответ -1 балл, вопрос 9-12- 2 балла. Максимальный балл -20.

/11

Практический тур

Задание 1

Осень – время для сбора грибов. Очень важно уметь ориентироваться в лесу. Как узнать стороны горизонта в лесу, если небо закрыто облаками, а компаса нет? Приведите не более трех способов, подробно описав использование каждого.

Максимальный балл -10 Мох на северной стороне деревьев. ~~Север~~ Полярная звезда указывает на Север. Муравейники всегда ведут на юг

10

Задание 2

Установите соответствие между изображением объектов на рисунке и на топографической карте.



Гео9-7-11

Работа на школьном этапе
ВСОШ
по географии
ученика 7а класса
средней школы №20
города Невинномысска
Недоёдова Артёма Константиновича
учитель: Галина Павловна
2018-2019 уч.г.

ВСЕРОССИЙСКАЯ ОЛИМПИАДА ШКОЛЬНИКОВ ПО ГЕОГРАФИИ
ШКОЛЬНЫЙ ЭТАП

7 класс а шифр 11

ЗАДАНИЯ ТЕСТОВОГО ТУРА

1. Первое кругосветное плавание совершила экспедиция под руководством…

1. Васко да Гамы
2. Христофора Колумба
3. Фернана Магеллана
4. Джеймса Кука

1б

2. Если именованный масштаб карты в 1 см 2 км, то численный масштаб составляет

1. 1:2 000
2. 1: 20 000
3. 1: 200 000
4. 1: 2 000 000

1б

3. Горы Кордильеры образовались в зоне взаимодействия литосферных плит:

1. Северо-Американской и Евроазиатской
2. Евроазиатской и Тихоокеанской
3. Северо-Американской и Африканской
4. Тихоокеанской и Северо-Американской

1б

4. Воздействие текучих вод на поверхность земли приводит к образованию

1. моренных холмов
2. овражно-балочной сети
3. дюн и барханов
4. лавовых плато

1б

5. Какая из перечисленных горных пород является метаморфической по происхождению?

1. глина
2. кварцит
3. известняк
4. пемза

1б

6. 23 сентября солнечные лучи падают под углом 90° на земную поверхность в районе

1. северного тропика
2. южного тропика
3. экватора
4. северного полярного круга

1б

7. Какой признак объединяет реки Волгу, Дон, Оку и Миссисипи?

1. равнинный характер течения
2. горный характер течения
3. географическое положение
4. направление течения

1б

8. Определите тип климата по описанию:

«Жара нестерпимая. Океан затих. Знойно и душно. В воздухе никакого движения. В каютах нечем дышать, тело покрывается испариной, простыни и подушки влажные».

1. умеренный морской
2. экваториальный
3. тропический пустынный
4. субтропический

0б

9. Самым восточным морем Атлантического океана является…

1. Саргассово
2. Средиземное
3. Балтийское
4. Черное

0б

10. Жители какой из перечисленных стран в настоящее время ведут кочевой образ жизни?

1. Аргентина
2. Габон
3. Монголия
4. Тайланд

11. В каких условиях формируются красно-желтые ферраллитные почвы?

1. влажного и жаркого климата
2. влажного и холодного климата
3. сухого и жаркого климата
4. сухого и холодного климата

12. В каком из названных морей Атлантического океана добывают нефть?

1. в Саргассовом
2. в Северном
3. в Балтийском
4. в море Уэдделла

13. Слоны, жирафы, носороги, зебры, антилопы – это животные африканской природной зоны

1. влажных экваториальных лесов
2. саванн и редколесий
3. тропических пустынь и полупустынь
4. субтропических жестколистных лесов и кустарников

14. В прибрежной зоне водоемов образуются ветры

1. пассаты
2. муссоны
3. бризы
4. западные ветры

15. О каком слое атмосферы идет речь в описании: содержит более 90% всей массы атмосферы и почти весь водяной пар, высота над экватором составляет до 18 км, а над полюсами — до 10–12 км, здесь зарождаются облака, выпадают осадки, ч высотой давление воздуха понижается, формируются атмосферные вихри:

1) верхние слои атмосферы; 2) тропосфера;
3) стратосфера; 4) ионосфера.

16. В умеренном поясе к югу от лесной зоны расположена зона…

1. полупустынь
2. лесостепей
3. степей
4. тундр

17. Какое кругосветное авиапутешествие будет короче?

1. по экватору
2. по параллели 70°
3. по параллели 40°
4. по начальному меридиану

18. Какой масштаб из перечисленных будет крупнее?

1. 1:1 000 000
2. 1:500 000
3. 1:250 000
4. 1:100 000

19. За какой период времени Земля совершает полный оборот, двигаясь по своей орбите?

1. За 24 часа. 2. За 365 дней и 6 часов. 3. За месяц. 4. За сезон.

20. Выберите принадлежащее В.В. Докучаеву емкое определение почвы:

1. Кладовая минералов. 2. Зеркало ландшафта. 3. Источник жизни. 4. Наследие веков

ПРАКТИЧЕСКИЕ ЗАДАНИЯ

Задание 1. Какие географические координаты имеет точка, обозначенная на карте России буквой А?

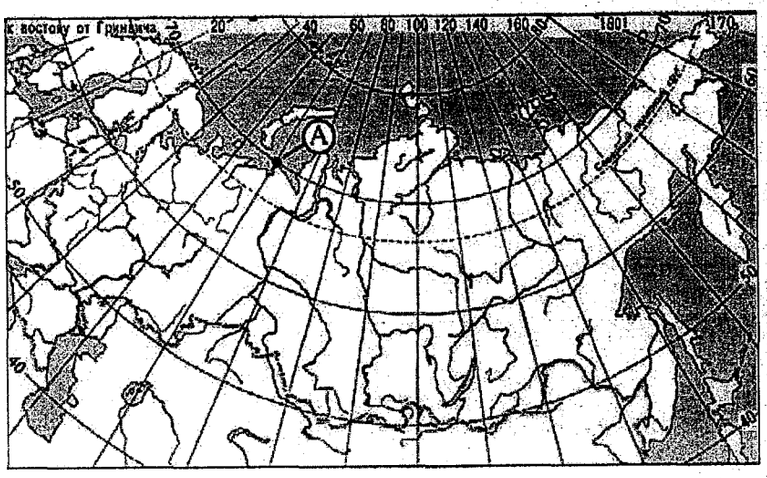

1) 70° с.ш. 60° в.д.

2) 60° с.ш. 70° в.д.

3) 70° с.ш. 60° з.д.

4) 60° с.ш. 70° з.д.

10б

Задание 2. Расстояние между Пекином и Токио на карте равно 30 см, реально - 1500 км. Определите масштаб карты 1: 5000000.

10б

Задание 3. Укажите вариант, где значение амплитуды температуры воздуха будет максимальным:

1) -16° и +16°
2) +3° и +33°
3) -4° и +17°
4) -24° и -48°

10б

Председатель жюри: Шарова Т.П.

Члены жюри: Воробьёв О.А.

Иванцова С.А.

Светлаев Ю.Н.

АНАЛИТИЧЕСКИЕ ЗАДАНИЯ

Задание 1.

Местечко Черрапунджи в предгорьях Гималаев называют «мокрым местом» земной суши. Здесь ежегодно выпадает до 12000 мм осадков. Какими причинами это можно объяснить? Каков годовой режим выпадения осадков в этом районе? Вычислите, за сколько лет в Москве выпадет примерно столько же влаги, сколько в Черрапунджи – за год. Назовите районы и страны на других материках, в которых подобно Черрапунджи имеются самые «мокрые» места.

10б

Городу Либревиль. ~~За~~ Примерно за 13 лет в Москве выпадает 12000 мм осадков.

Задание 2.

Люди издавна селились вблизи источников подземных вод, или в местах, где эти воды находятся вблизи земной поверхности. К каким формам рельефа обычно приурочены родники? Какие формы рельефа типичны для поселений, жителям которых приходится копать колодцы? Почему родниковая и колодезная вода, как правило, чистая, прозрачная и холодная? Из-за чего могут иссякнуть запасы подземных (грунтовых) вод?

5б

Родниковая вода чистая, потому-что она фильтрует ся почвой и охлаждается.

Задание 3.

Проходя Торресовым проливом, легендарный подводный корабль «Наутилус» сел на мель. По этому поводу капитан Немо сделал следующее замечание: «Сегодня 4 января, через пять дней будет полнолуние, и я буду очень удивлен, если любезный спутник нашей планеты не поднимет воды и тем не окажет мне услугу, которой я ни от кого не приму, кроме него».

Почему капитан Немо надеялся на полнолуние? О каком литературном произведении идет речь?

5б

Если наступит полнолуние, то поднимутся воды и „Наутилус" сойдёт с мели.

Задание 4.

Был полдень. Лучи солнца падали совершенно отвесно, так что тень от моей фигуры ложилась прямо подо мной на ярко сияющий крупно зернистый снег… Странно было сознавать, что в каких-нибудь 27–28 км к северу лежит экватор, а неподалеку сияет величайший шрам на лике Земли…

О какой местности (вершине мира) идет речь? Подробно опишите логику своего ответа.

0б

Гималаи. Вершина мира - самая высокая точка на планете - горы Гималаи (Эверест.)

Задание 5.

На Земле есть замечательный материк. Следуя на корабле вдоль его берегов с запада на восток, путешественник пересечет три океана; север и юг на этом материке мгновенно «меняются» местами. И, наконец, в этих местах человек не всегда в состоянии отличить море от суши.

Какой это материк? Какие три океана можно пересечь? Почему север и юг мгновенно меняются местами? Почему в этих местах сложно отличить море от суши?

0б

Евразия. Океаны - Атлантический, Ледовитый, Тихий.

Шифр Г105-8-18

Работа
на школьном этапе ВсОШ
по географии
ученицы 8 а класса
средней школы №20
города Невинномысска
Смуневой Софьи Александровны.
Аудитория: 105.
Учитель: Иващенко С.А.

2018-2019 учебный год.

Смяднева Шифр-П05-8-В

ВСЕРОССИЙСКАЯ ОЛИМПИАДА ШКОЛЬНИКОВ ПО ГЕОГРАФИИ
ШКОЛЬНЫЙ ЭТАП

8-9 класс **ШИФР**

Тестовый раунд

1. **Речная долина – это:**
1) площадь, с которой река собирает поверхностные и подземные воды
2) река со всеми притоками, включая реки, впадающие в притоки
1б. 3) углубление в рельефе земной поверхности, по которому течет постоянный речной поток
4) место, где река берет свое начало

2. **Какой ученый считается «отцом» теории дрейфа континентов?**
1б 1) Ньютон; 2) Вегенер; 3) Эйнштейн; 4) Агассиз

3. **Какая из этих стран не имеет выхода к морю?**
1б 1) Нигер; 2) Ирак; 3) Уругвай; 4) Сенегал

4. **На каком флаге изображены созвездия зодиака:**
1б 1) США; 2) Новая Зеландия; 3) Бразилия; 4) Китай.

5. **Современные геосинклинальные пояса в Евразии:**
1) оконтуривают материк на севере и востоке;
1б 2) протягиваются через центральную часть материка;
3) оконтуривают материк на юге и востоке;
4) представлены Урало-Монгольским и Тихоокеанским;
5) представлены Тихоокеанским и Альпийско-Гималайским

6. **Когда Христофор Колумб открыл Америку?** 1) 1492 г. 2) 1498 г. 3) 1506 г.
1б 4) 1519 г.

7. **Какая из перечисленных платформ относится к числу молодых?**
1б 1) Восточно-Европейская; 2) Туранская; 3) Китайско-Корейская; 4) Индостанская

8. **Какая страна Африки имеет выход к двум океанам:**
1б 1) Марокко 2) Египет 3) Судан 4) Сомали

9. **Шельфом называется:** 1) береговая линия; 2) материковая отмель до глубины 150-200
1б метров; 3) материковый склон до глубин 2 -3 км; 4) дно мирового океана

10. **Озеро, имеющее соленую и пресную часть:** 1) Баскунчак; 2) Эйр; 3) Балхаш;
1б 4) Лобнор

11. **Остров, на котором находится три государства:**
1б 1) Ява; 2) Калимантан; 3) Суматра; 4) Сулавеси

12. **Какое из следующих утверждений является верным?**
1б 1) Нижняя, наиболее плотная часть атмосферы высотой до 18 км называется стратосферой
2) В составе атмосферы преобладает азот
3) Температура воздуха в тропосфере увеличивается с высотой.
4) Атмосферное давление увеличивается с высотой

13. **Выберите часть света, к которой относятся Мальвинские острова:**
1б 1) Австралия и Океания; 2) Америка; 3) Европа; 4) Африка; 5) Азия

14. **Выберете из списка город, расположенный в южном полушарии:**
1б 1) Порту, 2) Перт; 3) Нджамена; 4) Манагуа; 5) Бангкок

15. **Самой низкой отметкой на Земном шаре является впадина:**
1б 1) Ассаль; 2) Гхор; 3) Каттара; 4) Турфанская 5) Карагие

16. **Основные запасы пресной воды на Земле сосредоточены в:**
1б 1) озерах; 2) ледниках; 3) реках и водохранилищах; 4) подземных водах

17. **Какая природная зона отсутствует на материках Южного полушария?**
1б 1) жестколистные вечнозелёные леса; 2) саванны и редколесья;
3) полупустыни и пустыни; 4) тундра и лесотундра

18. **Какое утверждение о движении воздушных масс является верным:**
1) Бризы меняют свое направление дважды в год;
1б 2) В тропических широтах господствуют западные ветры;
3) Летом муссоны дуют с океана на материк;
4) В умеренных широтах господствуют пассаты

ШИФР Г105-8-18.

Практический раунд

Найти соответствие

А	Страна	Б	Река	В	Озеро
1	Кения	1	Дарлинг	1	Эйр
2	Австралия	2	Нигер	2	Накуру
3	Нигер	3	Нил	3	Санта-Лючия
4	Египет	4	Тана	4	Чад
5	ЮАР	5	Вааль	5	Большое Горькое

15б

А	1	2	3	4	5
Б	4	1	2	3	5
В	2	1	4	5	3

Расставьте

1. Океанические течения по направлению от южного полюса к северному							
1	Эль-Ниньо	2	Западных Ветров	3	Межпассатное	4	Куросио
2. Моря с востока на запад							
3	Содружества	1	Дейвиса	2	Росса	4	Уэделла
3. Регионы в порядке увеличения количества осадков							
1	Атакама	3	Патагония	4	Аравийская пустыня	2	Ла-Плата
4. Города Беларуси с севера на юг							
2	Слуцк	4	Полоцк	3	Минск	1	Молодечно
5. Города в порядке их близости к Гринвичскому меридиану							
2	Москва	4	Лондон	1	Эр-Рияд	3	Париж

15б

Председатель Жерова Г.П.

Члены комис. Свечкарев И.Н.

Иванченко С.А.

Воробьев Д.А.

Шифр

ШИФР П05-8-18

19. **Какой из полуостровов Северной Америки омывается водами Тихого океана:**
1б 1) Флорида; 2) Юкатан; (3) Аляска; 4) Лабрадор

20. **Какое соответствие *«природная зона — типичный представитель её фауны»* является верным?**
1б 1) тайга — белый медведь 2) тайга — белая сова 3) степь — бурундук (4) степь — суслик

АНАЛИТИЧЕСКИЙ РАУНД

1.«Кто-то метко заметил, что человек, попавший в эти леса, дважды испытывает острую радость: в первый день, когда, ослеплённый их сказочными богатствами, он думает, что попал в рай, и в последний день, когда на грани безумства он наконец удирает из этого «зелёного ада». О какой природной зоне и почему так писал польский учёный А.Фидлер?
7б Где она расположена? Влажные экваториальные леса. Экваториальный пояс.
Выберите из списка растения и животных, которых вы можете встретить в этих лесах:

- *Баобаб, ель, сосна, дуб, (гевея), акация, (шоколадное дерево), лютик, мак, (орхидеи), держи-дерево, саксаул, лиственница*
- *Джейран, соболь, (ленивец), (тетяга), ягель, песец, (лемминг), кенгуру, (тушканчик), суслик, лев, бурый медведь, верблюд, белка, ягуар, (анаконда), (тукан), тапир, лиса, як*

2. Крупный полуостров омывается холодным течением. Носил разные названия. Современное название в переводе с португальского обозначает «земля пахаря», так как португальцы надеялись здесь сеять и выращивать сельскохозяйственные культуры, но из-за сурового климата сделать этого не удалось. Что это за полуостров? Расскажите, что Вы знаете о нем.

0 _____

3.Что общего у Ф.Магеллана (1470-1521) и Д.Кука (1728-1779).
Кто проплыл большее расстояние?
10 Оба не вернулись домой. Магеллан.

4. Северо-Атлантическое течение ежесуточно поставляет Баренцеву морю около 150 км³ тёплой воды, что в 22 раза больше, чем от стока в океан всех рек земного шара. Какова величина общего ежегодного стока в океан всех рек земного шара?
0 18 250 км³

5.Определите, какой вулкан из перечисленных имеет наибольшую и наименьшую относительную высоту:
Мауна-Лоа(абсолютная высота 4 170м; основание на глубине 1 560 м.),
Котопахи (абсолютная высота 5 897м; основание на высоте 520м),
Этна, крупнейший вулкан Европы (абсолютная высота 3 340м; основание на высоте 350м),
Килиманджаро(абсолютная высота 5 895м; основание на высоте 1 020м).
0 max: Котопахи 5377
min: Мауна-Лоа - 2610.

Шифр Г-212-9-27

Работа
на школьном этапе ВсОШ
по географии
ученицы МБОУ СОШ 520
города Невинномысска
Лаврик Елизаветы Анатольевны

11.10.2018
Учитель: Ивашенко Светлана Анатольевна

ВСЕРОССИЙСКАЯ ОЛИМПИАДА ШКОЛЬНИКОВ ПО ГЕОГРАФИИ
ШКОЛЬНЫЙ ЭТАП

8-9 класс **ШИФР** Г-212-9-27

Тестовый раунд

1б 1. **Речная долина – это:**
1) площадь, с которой река собирает поверхностные и подземные воды
2) река со всеми притоками, включая реки, впадающие в притоки
3) углубление в рельефе земной поверхности, по которому течет постоянный речной поток
4) место, где река берет свое начало

1б 2. **Какой ученый считается «отцом» теории дрейфа континентов?**
1) Ньютон; 2) Вегенер; 3) Эйнштейн; 4) Агассиз

1б 3. **Какая из этих стран не имеет выхода к морю?**
1) Нигер; 2) Ирак; 3) Уругвай; 4) Сенегал

1б 4. **На каком флаге изображены созвездия зодиака:**
1) США; 2) Новая Зеландия; 3) Бразилия; 4) Китай.

1б 5. **Современные геосинклинальные пояса в Евразии:**
1) оконтуривают материк на севере и востоке;
2) протягиваются через центральную часть материка;
3) оконтуривают материк на юге и востоке;
4) представлены Урало-Монгольским и Тихоокеанским;
5) представлены Тихоокеанским и Альпийско-Гималайским

1б 6. **Когда Христофор Колумб открыл Америку?** 1) 1492 г. 2) 1498 г. 3) 1506 г. 4) 1519 г.

1б 7. **Какая из перечисленных платформ относится к числу молодых?**
1) Восточно-Европейская; 2) Туранская; 3) Китайско-Корейская; 4) Индостанская

1б 8. **Какая страна Африки имеет выход к двум океанам:**
1) Марокко 2) Египет 3) Судан 4) Сомали

1б 9. **Шельфом называется:** 1) береговая линия; 2) материковая отмель до глубины 150-200 метров; 3) материковый склон до глубин 2 -3 км; 4) дно мирового океана

1б 10. **Озеро, имеющее соленую и пресную часть:** 1) Баскунчак; 2) Эйр; 3) Балхаш; 4) Лобнор

1б 11. **Остров, на котором находится три государства:**
1) Ява; 2) Калимантан; 3) Суматра; 4) Сулавеси

1б 12. **Какое из следующих утверждений является верным?**
1) Нижняя, наиболее плотная часть атмосферы высотой до 18 км называется стратосферой
2) В составе атмосферы преобладает азот
3) Температура воздуха в тропосфере увеличивается с высотой.
4) Атмосферное давление увеличивается с высотой

1б 13. **Выберите часть света, к которой относятся Мальвинские острова:**
1) Австралия и Океания; 2) Америка; 3) Европа; 4) Африка; 5) Азия

1б 14. **Выберете из списка город, расположенный в южном полушарии:**
1) Порту, 2) Перт; 3) Нджамена; 4) Манагуа; 5) Бангкок

1б 15. **Самой низкой отметкой на Земном шаре является впадина:**
1) Ассаль; 2) Гхор; 3) Каттара; 4) Турфанская 5) Карагие

1б 16. **Основные запасы пресной воды на Земле сосредоточены в:**
1) озерах; 2) ледниках; 3) реках и водохранилищах; 4) подземных водах

1б 17. **Какая природная зона отсутствует на материках Южного полушария?**
1) жестколистные вечнозелёные леса; 2) саванны и редколесья;
3) полупустыни и пустыни; 4) тундра и лесотундра

1б 18. **Какое утверждение о движении воздушных масс является верным:**
1) Бризы меняют свое направление дважды в год;
2) В тропических широтах господствуют западные ветры;
3) Летом муссоны дуют с океана на материк;
4) В умеренных широтах господствуют пассаты

ШИФР Г-212-9-27

Практический раунд

Найти соответствие

А	Страна	Б	Река	В	Озеро
1	Кения	1	Дарлинг	1	Эйр
2	Австралия	2	Нигер	2	Накуру
3	Нигер	3	Нил	3	Санта-Лючия
4	Египет	4	Тана	4	Чад
5	ЮАР	5	Вааль	5	Большое Горькое

15

А	1	2	3	4	5
Б	4	1	2	3	5
В	2	1	4	5	3

Расставьте

1. Океанические течения по направлению от южного полюса к северному							
1	Эль-Ниньо	2	Западных Ветров	3	Межпассатное	4	Куросио
2. Моря с востока на запад							
3	Содружества	1	Дейвиса	2	Росса	4	Уэделла
3. Регионы в порядке увеличения количества осадков							
1	Атакама	3	Патагония	4	Аравийская пустыня	2	Ла-Плата
4. Города Беларуси с севера на юг							
2	Слуцк	4	Полоцк	3	Минск	1	Молодечно
5. Города в порядке их близости к Гринвичскому меридиану							
2	Москва	4	Лондон	1	Эр-Рияд	3	Париж

15

ШИФР Г-212-9-27

1б 19. **Какой из полуостровов Северной Америки омывается водами Тихого океана:**
1) Флорида; 2) Юкатан; (3) Аляска; 4) Лабрадор

1б 20. **Какое соответствие *«природная зона — типичный представитель её фауны»* является верным?**
1) тайга — белый медведь 2) тайга — белая сова 3) степь — бурундук (4) степь — суслик

АНАЛИТИЧЕСКИЙ РАУНД

1.«Кто-то метко заметил, что человек, попавший в эти леса, дважды испытывает острую радость: в первый день, когда, ослеплённый их сказочными богатствами, он думает, что попал в рай, и в последний день, когда на грани безумства он наконец удирает из этого «зелёного ада». О какой природной зоне и почему так писал польский учёный А.Фидлер? Где она расположена?

0б Выберите из списка растения и животных, которых вы можете встретить в этих лесах:

- *Баобаб, ель, сосна, дуб, гевея, акация, шоколадное дерево, лютик, мак, орхидеи, держи-дерево, саксаул, лиственница*
- *Джейран, соболь, ленивец, летяга, ягель, песец, лемминг, кенгуру, тушканчик, суслик, лев, бурый медведь, верблюд, белка, ягуар, анаконда, тукан, тапир, лиса, як*

5б **2.** Крупный полуостров омывается холодным течением. Носил разные названия. Современное название в переводе с португальского обозначает «земля пахаря», так как португальцы надеялись здесь сеять и выращивать сельскохозяйственные культуры, но из-за сурового климата сделать этого не удалось. Что это за полуостров? Расскажите, что Вы знаете о нем.

Полуостров называется Лабрадор. Открыл его португальский мореплаватель Гашпар Кортириал в 1500 году

5б **3.**Что общего у Ф.Магеллана (1470-1521) и Д.Кука (1728-1779).
Кто проплыл большее расстояние?

Ф.Магеллан и Д.Кук — мореплаватели. Они совершили кругосветное путешествие на кораблях, большее расстояние проплыл Ф. Магеллан.

0б **4.** Северо-Атлантическое течение ежесуточно поставляет Баренцеву морю около 150 км³ тёплой воды, что в 22 раза больше, чем от стока в океан всех рек земного шара. Какова величина общего ежегодного стока в океан всех рек земного шара?

3300 км³.

5б **5.**Определите, какой вулкан из перечисленных имеет наибольшую и наименьшую относительную высоту:
Мауна-Лоа(абсолютная высота 4 170м; основание на глубине 1 560 м.),
Котопахи (абсолютная высота 5 897м; основание на высоте 520м),
Этна, крупнейший вулкан Европы (абсолютная высота 3 340м; основание на высоте 350м),
Килиманджаро(абсолютная высота 5 895м; основание на высоте 1 020м).

Наибольший — Килиманджаро
Наименьший — Этна

Шифр: Г-Ш-329-10-29

Работа на школьном этапе
ВсОШ по географии
2018-2019 уч. года
ученицы 10 „а" класса
МБОУ СОШ №20
города Невинномысска
Ковалёвой Полины Андреевны
учитель: Иващенко Светлана Анатольевна

ВСЕРОССИЙСКАЯ ОЛИМПИАДА ШКОЛЬНИКОВ ПО ГЕОГРАФИИ

ШКОЛЬНЫЙ ЭТАП

10-11класс

Шифр Г-111-329-10-29

Тестовый тур

1. **Какие ресурсы относятся к исчерпаемым возобновимым**

1б 1) Рудные; 2) Почвенные; 3) Лесные; 4) Солнечная энергия

2. **Выберете два типичных представителя растительности экваториальных лесов Африки:**

1б 1) Земляничное дерево; 2) Эбеновое дерево; 3) Носорожий куст; 4) Красное дерево; 5) Дуб пробковый; 6) Подокарпус Геккеля

3. **Какие равнины из названных не соответствуют древним платформам?**

1б 1) Северо-Германская 2) Индо-Ганская 3) Западно-Сибирская 4) Туранская 5) Великая Китайская

4. **Какие два из приведенных географических объектов относятся к Африке:**

1б 1) Лаврентийская возвышенность; 2) Нагорье Тибести ; 3) Плато Дарфур ; 4) Восточная Сьерра-Мадре; 5) плато Путорана

5. **Какие два геологических периода новейшие?**

1б 1) девонский; 2) меловой; 3) пермский; 4) кембрийский; 5) позднепротерозойский

6. **Какие три реки принадлежат к бассейну Индийского океана?**

1б 1) Лимпопо; 2) Оранжевая; 3) Тана; 4) Джуба; 5) Сенегал

7. **Огромную водность Амазонки обусловливают следующие факторы:**

1б 1) рельеф материка 2) географическое положение в экваториальном поясе 3) большое количество осадков, приносимых западным переносом 4) большое количество осадков, приносимых западным летним муссоном 5) таяние ледников в Андах

8. **Назовите три правильные утверждения:**

1б 1) Белиз – государство на востоке Африки 2) Тана – озеро в Эфиопии 3) Остров Сокотра находится у побережья Сомали 4) Масеру – город в ЮАР 5) Джая – вершина на острове Новая Гвинея 6) желоб Кайман находится в Тихом океане

9. **Выберете из списка два теплых течения:**

1б 1) Гвинейское; 2) Канарское; 3) Перуанское; 4) Мыса Игольного

10. **Выберете из списка два правильных утверждения:**

1б 1) Золото – ЮАР; 2) Золото – Новая Зеландия; 3) Медь– Замбия; 4) Железо – Зимбабве; 5) Серебро – Ангола

11. **Аппалачи – это горы**

1б 1) молодые 2) складчатые 3)глыбовые 3) складчато-глыбовые 5) старые

12. **Североамериканская платформа долгое геологическое время находилась в составе праматерика**

1б 1) Пангея 2) Лавразия 3) Гондвана 4)Евразия 5) Атлантида

13. **Прерии**

1б 1) это североамериканские сухие степи в умеренном поясе 2) это высокотравные субтропические луга, занимающие восточные склоны Кордильер 3) это равнины в умеренном и субтропическом поясах Северной Америки, в растительности которых господствуют высокие травы 4) формируются при более высоких, чем степи, летних температурах 5) образуют вытянутую вдоль меридиана, переходную зону между степями и широколиственными лесами

14. **Горный пояс Анд выделяется запасами полезных ископаемых:**

1б 1) меди 2) железных руд 3) каменного угля 4) олова 5) полиметаллических руд

Шифр_____

15. **Что не встречается в Антарктиде?**

1б (1) Летающие насекомые; 2) Ползающие насекомые; (3) Пресноводные рыбы; 4) Лишайники; 5) Мхи

16. **Какие группы островов находятся в Тихом океане?**

1б (1) Феникс; 2) Лаккадивские; 3) Кокосовые; (4) Тубуаи; (5) Тонга

17. **Типичные представители фауны экваториальных лесов?**

1б (1) Карликовый бегемот; (2) Леопард; 3) Антилопа; 4) Жираф; 5) Скорпион

18. **Нефтеносные бассейны на территории Южной Америки приурочены**

1б (1) к прогибам земной коры (2) к щитам древней платформы (3) к низменностям 4) к горным сооружениям (5) к северной части материка

19. **Названия каких стран совпадают со столицами?**

1б (1) Панама; 2) Сомали; 3) Эквадор; 4) Свазиленд; 5) Суринам; 6) Лесото; (7) Гватемала

20. **Выберите три фактора, которыми в первую очередь обусловлена смена природных зон не в широтном, а в меридиональном направлении в умеренном поясе северного полушария**

1б (1) угол падения солнечных лучей (2) чередование пространств суши и моря (3) западный перенос (4) протяжённость территории материков по параллели (4) неровная поверхность

Аналитический тур

1. Название этого государства в переводе означает « страна достойных людей». Старое его название переводилось как « приходите, окажите честь». По территории страны протекают три большие «цветные» реки. Назовите государство и «цветные» реки.

0б

2. Почему 1960 г. Называют годом Африки?

1б в это время 17 стран получили независимость африканского континента

3. На географической карте есть объекты, названия которых предупреждают об опасности: Долина Смерти, « ворота слез (скорби)», берег Скелетов. Где расположены эти объекты? Объясните, какие особенности данных мест послужили причиной появления столь мрачных названий

0б

4. В легенде топографической карты оказалась оторвана часть с высотами сечения горизонталей. Имеются отметки 140 и 150м, между ними 4 промежутка. Какова высота сечения рельефа?

1б 2,5 м

5. Знаменитая Мэри Поппинс в своей песенке исполнила: «Это было прошлым летом, в середине января, в тридесятом королевстве, там, где нет в помине короля». Назовите государство, которое соответствует этим условиям, если известно, что его столица – не является портом? Приведите необходимые объяснения.

0б ЮАР

Шифр_____

Практический раунд

1. Говорят, что в спорте самые обидные места – второе и четвёртое. Если бы подобное соревнование произошло среди самых высоких гор России, то какие бы вершины заняли эти «обидные» места? И ещё, найдите на карте самую высокую гору европейской части России.

5б

УСЛОВИЕ	НАЗВАНИЕ ГОРЫ	ВЫСОТА (м)
1-е место	г. Эльбрус	5642
2-е место	г. Дыхтау	5202
3-е место	г. Казбек	5033
4-е место	г. Ключевая сопка	4750
Самая высокая гора Европейской части России	г. Эльбрус	5642

2. **По фрагменту карты определите территорию и опознайте 4 страны, обозначенные цифрами**

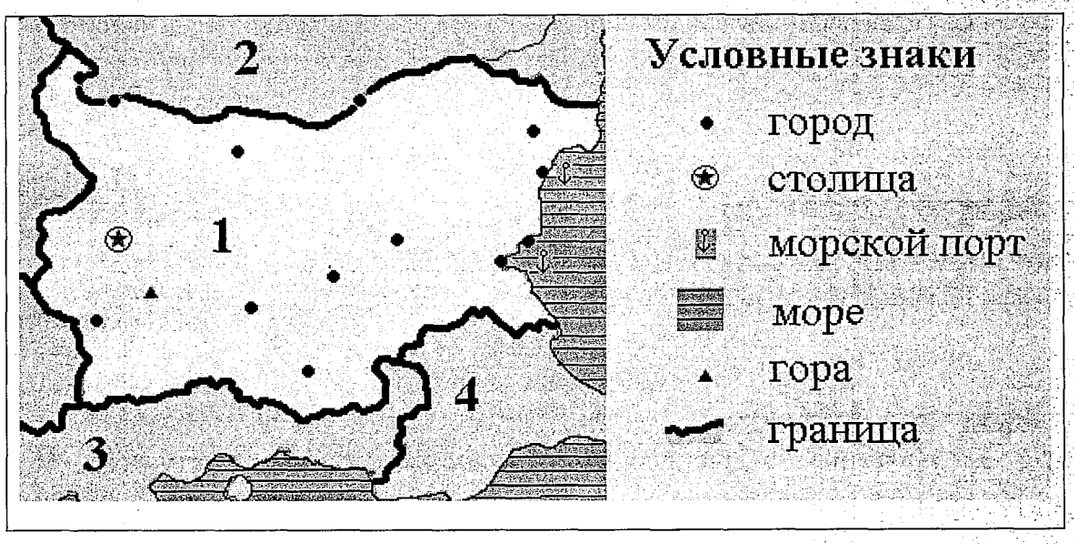

15б

1	2	3	4
Болгария	Румыния	Греция	Турция

Председатель жюри: Жирова Г.П

Члены жюри: Свечкарёв Н.Н.
Иваненко С.А.
Воробьёв Д.А

Шифр Г-212-11-14

Работа на школьном этапе ВсОШ
по географии
ученицы 11 А класса
МБОУ СОШ №20
города Невинномысска
Сидаковой Дарьи Александровны
11.10.2018
Учитель: Широва Галина Павловна.

ВСЕРОССИЙСКАЯ ОЛИМПИАДА ШКОЛЬНИКОВ ПО ГЕОГРАФИИ

ШКОЛЬНЫЙ ЭТАП

10-11класс

Шифр Г-212-11-14

Тестовый тур

1. **Какие ресурсы относятся к исчерпаемым возобновимым**

1б 1) Рудные; 2) Почвенные; 3) Лесные; 4) Солнечная энергия

2. **Выберете два типичных представителя растительности экваториальных лесов Африки:**

1) Земляничное дерево; 2) Эбеновое дерево; 3) Носорожий куст; 4) Красное дерево;
0,5 5) Дуб пробковый; 6) Подокарпус Геккеля

3. **Какие равнины из названных не соответствуют древним платформам?**

1 1) Северо-Германская 2) Индо-Ганская
3) Западно-Сибирская 4) Туранская 5) Великая Китайская

4. **Какие два из приведенных географических объектов относятся к Африке:**

1) Лаврентийская возвышенность; 2) Нагорье Тибести ; 3) Плато Дарфур ;
1 4) Восточная Сьерра-Мадре; 5) плато Путорана

5. **Какие два геологических периода новейшие?**

1 1) девонский; 2) меловой; 3) пермский; 4) кембрийский;
5) позднепротерозойский

6. **Какие три реки принадлежат к бассейну Индийского океана?**

1 1) Лимпопо; 2) Оранжевая; 3) Тана; 4) Джуба; 5) Сенегал

7. **Огромную водность Амазонки обусловливают следующие факторы:**

1) рельеф материка 2) географическое положение в экваториальном поясе
3) большое количество осадков, приносимых западным переносом
1 4) большое количество осадков, приносимых западным летним муссоном
5) таяние ледников в Андах

8. **Назовите три правильные утверждения:**

1) Белиз – государство на востоке Африки 2) Тана – озеро в Эфиопии
0,5 3) Остров Сокотра находится у побережья Сомали 4) Масеру – город в ЮАР
5) Джая – вершина на острове Новая Гвинея 6) желоб Кайман находится в Тихом океане

9. **Выберете из списка два теплых течения:**

0,5 1) Гвинейское; 2) Канарское; 3) Перуанское; 4) Мыса Игольного

10. **Выберете из списка два правильных утверждения:**

1) Золото – ЮАР; 2) Золото – Новая Зеландия; 3) Медь– Замбия;
1 4) Железо – Зимбабве; 5) Серебро – Ангола

11. **Аппалачи – это горы**

1 1) молодые 2) складчатые 3)глыбовые 4) складчато-глыбовые 5) старые

12. **Североамериканская платформа долгое геологическое время находилась в составе праматерика**

1) Пангея 2)Лавразия 3) Гондвана 4)Евразия 5) Атлантида

13. **Прерии**

1) это североамериканские сухие степи в умеренном поясе
2) это высокотравные субтропические луга, занимающие восточные склоны Кордильер
3) это равнины в умеренном и субтропическом поясах Северной Америки, в растительности которых господствуют высокие травы
4) формируются при более высоких, чем степи, летних температурах
0,5 5) образуют вытянутую вдоль меридиана, переходную зону между степями и широколиственными лесами

14. **Горный пояс Анд выделяется запасами полезных ископаемых:**

1 1) меди 2) железных руд 3) каменного угля 4) олова 5) полиметаллических руд

Шифр Г-212-11-14

Практический раунд

1. Говорят, что в спорте самые обидные места – второе и четвёртое. Если бы подобное соревнование произошло среди самых высоких гор России, то какие бы вершины заняли эти «обидные» места? И ещё, найдите на карте самую высокую гору европейской части России.

УСЛОВИЕ	НАЗВАНИЕ ГОРЫ	ВЫСОТА (м)
1-е место	г. Эльбрус	5642
2-е место		
3-е место	г. Казбек	5033
4-е место		
Самая высокая гора Европейской части России		

2. **По фрагменту карты определите территорию и опознайте 4 страны, обозначенные цифрами**

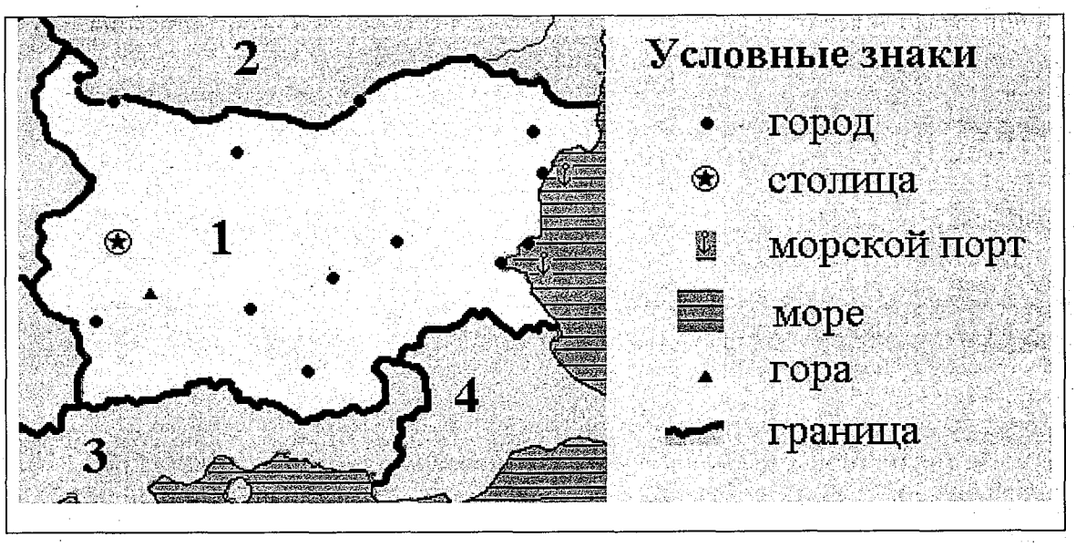

15

1	2	3	4
Болгария	Румыния	Греция	Турция

15

Председатель Жерова Г.П.
Члены комис. Воробьев Ю.А.
Иваненко С.А
Свечкарев И.И.

Всего баллов 67.

Шифр Г 212 11-14

15. **Что не встречается в Антарктиде?**

1 (1) Летающие насекомые; (2) Ползающие насекомые; (3) Пресноводные рыбы; 4) Лишайники; 5) Мхи

16. **Какие группы островов находятся в Тихом океане?**

0,5 1) Феникс; 2) Лаккадивские; (3) Кокосовые; (4) Губуаи; (5) Тонга

17. **Типичные представители фауны экваториальных лесов?**

1 (1) Карликовый бегемот; (2) Леопард; 3) Антилопа; 4) Жираф; 5) Скорпион

18. **Нефтеносные бассейны на территории Южной Америки приурочены**

(1) к прогибам земной коры 2) к щитам древней платформы (3) к низменностям

1 4) к горным сооружениям (5) к северной части материка

19. **Названия каких стран совпадают со столицами?**

1) Панама; 2) Сомали; (3) Эквадор; 4) Свазиленд; 5) Суринам; 6) Лесото; (7) Гватемала

1 20. **Выберите три фактора, которыми в первую очередь обусловлена смена природных зон не в широтном, а в меридиональном направлении в умеренном поясе северного полушария**

(1) угол падения солнечных лучей (2) чередование пространств суши и моря

3) западный перенос (4) протяжённость территории материков по параллели

1 (4) неровная поверхность

Аналитический тур

1. Название этого государства в переводе означает « страна достойных людей». Старое его название переводилось как « приходите, окажите честь». По территории страны протекают три большие «цветные» реки. Назовите государство и «цветные» реки.

5 Бурмия - Рио

2. Почему 1960 г. Называют годом Африки?

10 Потому что в 1960 году появилось 17 новых африканских государств – бывших колоний

3. На географической карте есть объекты, названия которых предупреждают об опасности: Долина Смерти, « ворота слез (скорби)», берег Скелетов. Где расположены эти объекты? Объясните, какие особенности данных мест послужили причиной появления столь мрачных названий

4. В легенде топографической карты оказалась оторвана часть с высотами сечения горизонталей. Имеются отметки 140 и 150м, между ними 4 промежутка. Какова высота сечения рельефа?

10 2,5

5. Знаменитая Мэри Поппинс в своей песенке исполнила: «Это было прошлым летом, в середине января, в тридесятом королевстве, там, где нет в помине короля». Назовите государство, которое соответствует этим условиям, если известно, что его столица – не является портом? Приведите необходимые объяснения.

10 Австралия т.к климат там не совпадает с временем года а еще в Австралии не было королей.